Sveučilište u Zagrebu
Arhitektonski fakultet

DODATNA PROVJERA ZNANJA, VJEŠTINA I SPOSOBNOSTI
Test 2: Provjera opće kulture

lipanj 2013.

Upute i napomene pristupnicima:

Listove sa zadacima može se koristiti za bilježenje rješenja: oni se **neće ispravljati niti bodovati**. Pažljivo čitajte upute uz svaki zadatak jer se zadaci različito rješavaju.

Kada ste gotovi, odgovore i rješenja označite na **LISTU ZA ODGOVORE** na predviđenom mjestu, na primjer:

Zadatak 0 5 bodova

A	B	C	D

Zadatak 0 5 bodova

ČITKO UPISANI ODGOVOR

Na **LISTU ZA ODGOVORE** koristite kemijsku olovku, obavezno ispunite odgovore na sva pitanja i nemojte ispravljati odgovore. Osim odgovora na pitanja, **LISTOVI ZA ODGOVORE** ne smiju sadržavati druge bilješke ili skice. U suprotnom se neće priznavati bodovi.

Uza svaki zadatak naznačen je ukupan broj bodova za točno riješen cijeli zadatak. U testu nema negativnih bodova.

Zadatak 1 8 bodova

Od četiri navedena imena, odnosno naziva, više ih je u izravnoj vezi. Označite na listu za odgovore slovo uz ono koje s ostalima nije povezano.
a) Weissenhof
b) Le Corbusier
c) Deutscher Werkbund
d) Michael Heizer

Zadatak 2 8 bodova

Ilustracija prikazuje djelo naziva "Beskonačni štap - hommage Manetu" hrvatskog umjetnika čija je izložba "Ukidanje retrospektive" nedavno završena u Muzeju suvremene umjetnosti u Zagrebu. Kako se zove autor? Ime i prezime čitko upišite u za to predviđeno mjesto na listu za odgovore.



Zadatak 3 8 bodova

Dantea kroz pakao i čistilište u "Božanstvenoj komediji" vodi antički pjesnik _____.

Njegovo ime čitko upišite na listu za odgovore.

Zadatak 4 5 bodova

Odnos površina kopna i vode na Zemlji je približno:
a) 40% k i 60% v
b) 30% k i 70% v
c) 10% k i 90% v
d) 20% k i 80% v

Slovo uz točan odgovor označite na listu za odgovore.

Zadatak 5 5 bodova

Nabrojana su imena troje hrvatskih pijanista i jednog violončelista:
a) Vladimir Krpan
b) Pavica Gvozdić
c) Valter Dešpalj
d) Lovro Pogorelić

Slovo uz ime violončelista označite na listu za odgovore.

Zadatak 6 5 bodova

U filmu austrijskog redatelja Michaela Hanekea "Ljubav", dobitniku niza filmskih nagrada 2012. i 2013., protagonisti govore:
a) njemački
b) engleski
c) francuski
d) talijanski

Slovo uz točan odgovor označite na listu za odgovore.

Zadatak 7 5 bodova

Koji se od navedenih glazbenih festivala ne održava u Hrvatskoj:
a) Terraneo
b) InMusic
c) Hartera
d) Exit

Slovo uz točan odgovor označite na listu za odgovore.

Zadatak 8 8 bodova

Kako se zvao otvoreni gradski prostor okupljanja i javnog života u antičkoj Grčkoj? Točan odgovor upišite na listu za odgovore.

Zadatak 9 5 bodova

Art-direktor turneje pjevačice Severine „Dobrodošao u klub“ je kazališni redatelj:
a) Krešimir Dolenčić
b) Oliver Frljić
c) Ivica Buljan
d) Tomaž Pandur

Slovo uz točan odgovor označite na listu za odgovore.

Zadatak 10 10 bodova

Slovima A-D označena su naslovi filmova, a brojke 1-4 označavaju četiri kadra iz tih filmova. Povežite imena filmova s pripadajućim kadrovima i točne odgovore upišite na listu za odgovore.

A - Slatki život
B - Kabinet dr. Caligarija
C - Sjever-sjeverozapad
D - Dogville

1



2



3



4



Zadatak 11 5 bodova

Autor eksperimentalnog urbanističkog projekta Sinturbanizam, jugoslavenskog paviljona za Svjetsku izložbu u Bruxellesu i sistemskih skulptura Reljefometara je hrvatski arhitekt i umjetnik:
a) Bernardo Bernardi
b) Vjenceslav Richter
c) Aleksandar Srnec
d) Andrija Mutnjaković

Slovo uz točan odgovor označite na listu za odgovore.

Zadatak 12 5 bodova

Izbaci sintagmu koja nije oksimoron:
a) Nov i poboljšan
b) Tautološka dijalektika
c) Hitna intervencija
d) Napola gotovo

Slovo uz točan odgovor označite na listu za odgovore.

Zadatak 13 5 bodova

Numen/For Use je:
a) hrvatsko-austrijski dizajnerski kolektiv
b) britanska electro-grupa/njihov prvi album
c) prva serija IKEA-inog namještaja
d) računalni program

Slovo uz točan odgovor označite na listu za odgovore.

Zadatak 14 6 bodova

Ilustracija prikazuje djelo iz serije "Bum-bum" hrvatskog umjetnika čija se retrospektivna izložba otvara 29. lipnja 2013. u Muzeju suvremene umjetnosti u Zagrebu. Njegovo ime je:



a) Ivan Picelj
b) Miroslav Šutej
c) Mladen Stilinović
d) Boris Bućan

Slovo uz točan odgovor označite na listu za odgovore.

Zadatak 15 10 bodova

Slovima A-D označeni su tlocrti četiri muzeja. Brojevima 1-4 označene su četiri fotografije eksterijera od kojih po jedna pripada svakom od primjera koji su prikazani tlocrtom. Mjerila tlocrta nisu usklađena. Pronađite parove i točne odgovore upišite na listu za odgovore.

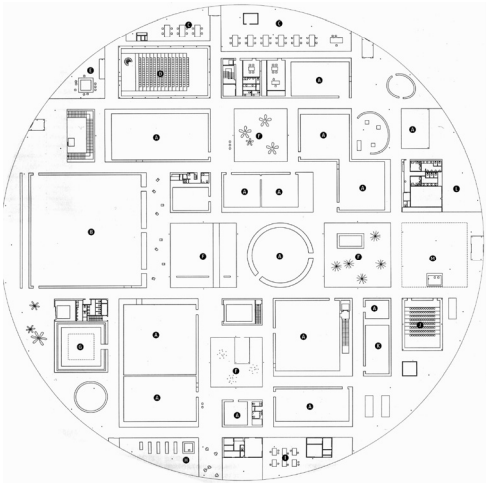

A

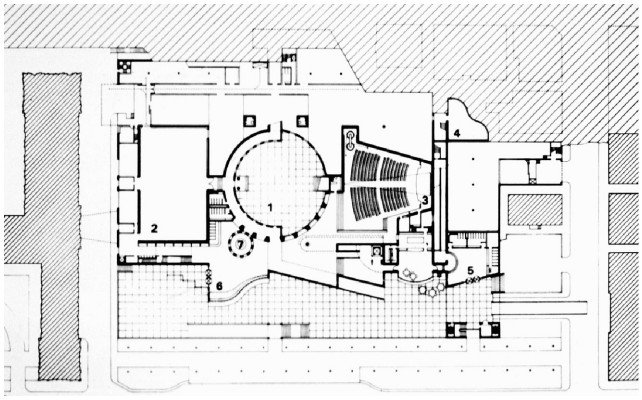

B

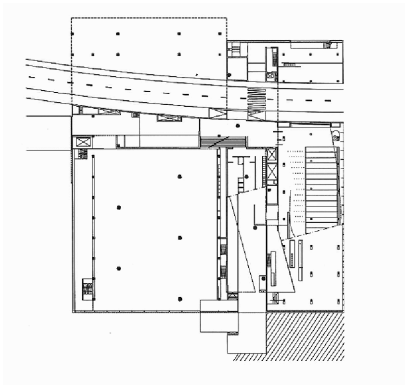

C

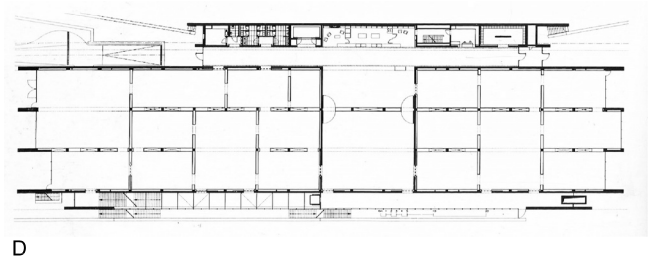

D



1



2



3



4

Zadatak 16 5 bodova

Jedini roman hrvatskog književnika Janka Polića Kamova zove se:
a) Isušena kaljuža
b) Banket u blitvi
c) Bolja polovica hrabrosti
d) Snijeg u Heidelbergu

Slovo uz točan odgovor označite na listu za odgovore.

Zadatak 17 5 bodova

Dobitnik Pritzkerove nagrade za arhitekturu 2013. je:
a) Fumihiko Maki
b) Toyo Ito
c) Tadao Ando
d) Sou Fujimoto

Slovo uz točan odgovor označite na listu za odgovore.

Zadatak 18 5 bodova

Od četiri navedena imena, više ih je u izravnoj vezi. Označite na listu za odgovore slovo uz ono koje s ostalima nije povezano.
a) Steve Jobs
b) John Lydon
c) Pixar
d) Apple

Zadatak 19 10 bodova

Slovima A-D označena su imena arhitekata, a brojke 1-4 označavaju četiri knjige/teksta o arhitekturi kojih su navedeni arhitekti autori. Povežite imena arhitekata s naslovima i točne odgovore upišite na listu za odgovore.

A Bruno Zevi	1 Kultura stanovanja
B Adolf Loos	2 Deset knjiga o arhitekturi
C Vitruvije	3 Znati gledati arhitekturu
D Stjepan Planić	4 Ornament i zločin

Zadatak 20 5 bodova

Aktualni predsjednik vlade Republike Turske zove se:
a) Ferit Orhan Pamuk
b) Halit Ergenc
c) Mustafa Kemal Ataturk
d) Recep Tayyip Erdogan

Slovo uz točan odgovor označite na listu za odgovore.

Zadatak 21 10 bodova

Fotografije označene slovima A-D prikazuju svodove i kupole poznatih građevina. Poredajte ih po kronološkom slijedu njihovog nastanka, od najstarije do najnovije. Točan redoslijed upišite na listu za odgovore.

A



B



C



D



Zadatak 22 10 bodova

Od četiri ilustracije označene slovima od A-D više ih pripada istoj građevini. Označite na listu za odgovore slova uz one ilustracije koje jesu povezane.



A



B



C

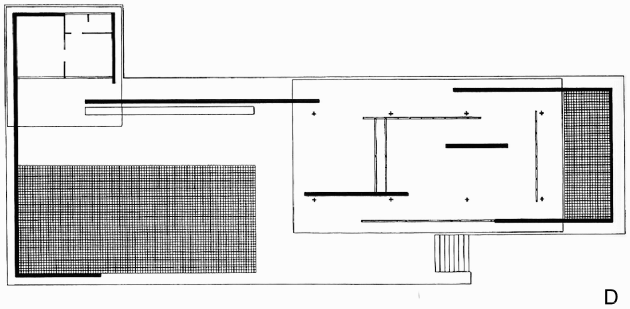

D

Zadatak 23 5 bodova

Mirko Ilić je:
a) slovenski rukometaš
b) srpski pjevač
c) hrvatsko-bosansko-američki dizajner
d) hrvatski arhitekt

Slovo uz točan odgovor označite na listu za odgovore.

Zadatak 24 6 bodova

Od četiri navedena imena, odnosno naziva, više ih je u izravnoj vezi. Označite na listu za odgovore slovo uz ono koje s ostalima nije povezano.
a) Juraj Dalmatinac
b) Nikola Firentinac
c) katedrala sv. Jakova u Šibeniku
d) plan grada Stona

Zadatak 25 5 bodova

Aktualna ministrica kulture Republike Hrvatske je:
a) Andrea Zlatar
b) Ruža Tomašić
c) Vesna Pusić
d) Anka Mrak Taritaš

Slovo uz točan odgovor označite na listu za odgovore.

Zadatak 26 5 bodova

Četiri slike označene su slovima od A-D. Koja od njih pripada pravcu koji se zove *op-art*? Na listu za odgovore označite slovo uz točan odgovor.



A



B



C



D

Zadatak 27 8 bodova

Antologijsku knjigu "Vers une architecture" ("Ka pravoj arhitekturi"), zbirku sedam eseja koji su većim dijelom prethodno objavljeni u časopisu "L'Esprit Nouveau", napisao je i 1923. objavio _____.

Ime autora upišite na listu za odgovore.

Zadatak 28 8 bodova

Povjerenik Bijenala arhitekture u Veneciji 2014. je nizozemski arhitekt _____.

Točan odgovor upišite čitko na listu za odgovore.

Zadatak 29 5 bodova

Teoriju evolucije živih bića Charles Darwin objasnio je u knjizi:
a) Kratka povijest svemira
b) O miševima i ljudima
c) Postanak vrsta
d) Sebični gen

Slovo uz točan odgovor označite na listu za odgovore.

Zadatak 30 10 bodova

Slovima A-D označeni su tlocrti pojedinih etaža četiri obiteljske kuće. Mjerila nisu usklađena. Na listu za odgovore označi slovo uz onaj tlocrt koji prikazuje kuću arhitekta Frank Lloyd Wrighta.

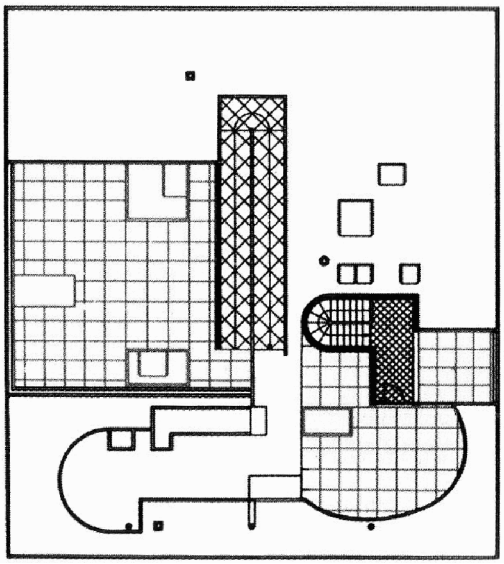

A

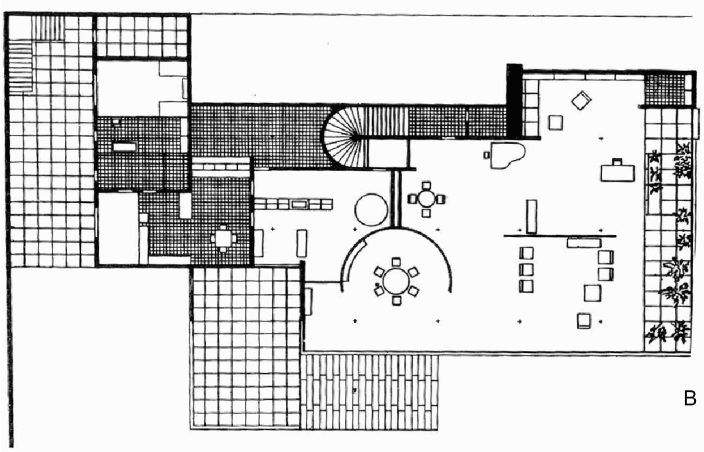

B

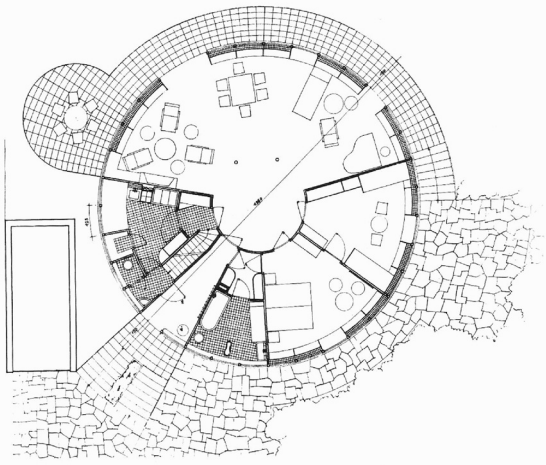

C

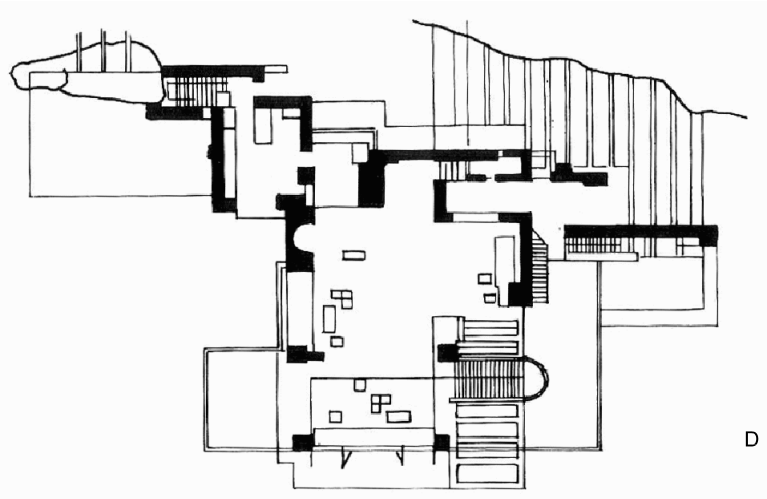

D